2.SINIF PROBLEMLER

ONLUK-BİRLİK

Adı Soyadı:

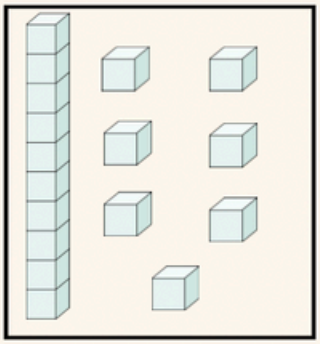

1) Yanda onluk ve birlikler ile gösterilen sayının 6 eksiği kaçtır?

2)1 onluk 2 birlikten oluşan sayı ile 1 onluk 0 birlikten oluşan sayının toplamı kaçtır?

3) Ayşe elindeki onluk ve birlikleri kullanarak 25 sayısını elde etmiştir. Elindeki onluklardan 1 tanesi ile birliklerden 3 tanesini kullanmasaydı hangi sayıyı elde etmiş olurdu?

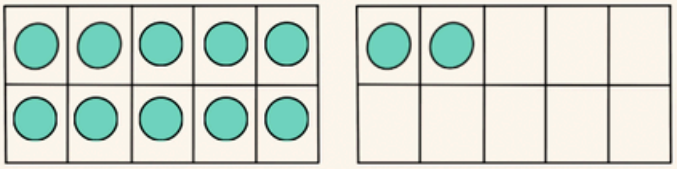

4) Yukarıda verilen sayının 7 eksiği kaçtır?

5) Mert evdeki cevizleri onluk ve birlik gruplarına ayırmak istiyor. 8 cevizi daha olsaydı 1 onluk 3 birlik olarak ayırabilecekti. Buna göre başta kaç cevizi vardı?

6) Seda öğretmen sınıftaki kaybolan kalemler ile 3 onluk oluşturuyor. Kaybolan kalemlerin 12 tanesinin sahiplerini bulursa kaç onluk kaç birliği kalmış olur?

Adı Soyadı:

1) Bir toplama işlemindeki toplananlardan biri 8 birlikten oluşan bir sayıdır. Diğer toplanan ise onun 3 fazladır. Buna göre toplam kaçtır?

2) Yağmur evdeki boya kalemlerini onluklar halinde ayırmak istiyor. 5 boya kalemi daha olsaydı 3 onluğa ayırabilecekti. Buna göre Yağmur'un kaç boya kalemi vardır ?

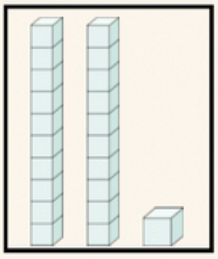

3) Yanda verilen sayı ile 5 eksiğinin farkı kaçtır?

4) Güneş onar onar sayarken 3. söylediği sayı ile 5. söylediği sayının onluklarını topluyor. Buna göre Güneş hangi sayıyı elde etmiştir?

5) 2 haftada bulunan toplam gün sayısı kaç onluk kaç birlikten oluşur?

6) İrem ağaçtan topladığı elmalar ile 2 onluk oluşturmak istiyor. 8 fazla elması olduğuna göre İrem ağaçtan kaç elma toplamıştır ?

HEMEN İNDİR

www.ilkokuldan.com.tr

SAYFAMIZA DESTEK OLMAK İÇİN

Beğen

Paylaş

Yorum Yap

Kaydet

@ilkokuldanofficial